姓名_____准考证号_____

山西省2024—2025学年七年级第二学期阶段三质量检测

历　　史

注意事项：

1. 本卷分第Ⅰ卷和第Ⅱ卷，全卷共8页，满分75分，考试时间70分钟。
2. 答卷前，考生务必将自己的姓名、准考证号填写在本试卷相应的位置。
3. 答案全部在答题卡上完成，答在本试卷上无效。
4. 考试结束后，将本试卷和答题卡一并交回。

晋文源教育

第Ⅰ卷　选择题　（共30分）

本部分共15小题，每小题2分，共30分。在每小题的四个选项中，只有一个最符合题意，请选出并在答题卡上将该项涂黑。

1. 下图是小明同学为学习某历史主题时搜集的壁画图片，壁画中描绘的茶具与烹茶程序皆体现出唐宋茶法在辽地的影响。由此可知，小明同学学习的历史主题最可能是



辽墓壁画《备茶图》（局部）

A. 民族文化的交融
B. 对外交流的繁盛
C. 国家统一的措施
D. 军事战争的残酷

2. 下图是《天工开物》中描绘宋代技术的插图《沉铅结银图》，该图反映的是宋代哪一行业的成就



《沉铅结银图》

A. 纺织业
B. 矿冶业
C. 造船业
D. 种植业

3. “黑火药在经阿拉伯国家传入欧洲后，欧洲逐渐出现了使用火器的线列步兵，以线列步兵为主的步兵方阵崛起并成为战场上的主流。”这体现了火药的传播

A. 推动了作战方式的演变　　B. 源于中央政府崇文抑武政策
C. 主要的方向是一路向东　　D. 展现了宋代高超的工业水准

4. 下面的示意图简要表示了中国古代经济重心转移的过程，其中①对应的时期应当是

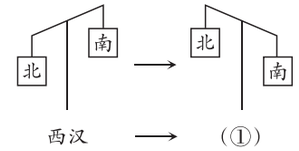

A. 隋
B. 唐
C. 五代十国
D. 南宋

5. 宋代书院的教学内容以理学为主，理学十分强调对学生的道德教育与行为规范的培养，要求学生“三省吾身”。据此可知，宋代理学

A. 支持无为而治　　B. 主张恢复周朝礼乐制度
C. 认为儒术独尊　　D. 要求人们遵从伦理道德

6.《资治通鉴》蕴含着深刻的历史智慧，其中《魏纪》记载了北魏国主拓跋焘倾听臣下建议，最终巩固统治的史实；《唐纪》记载了唐玄宗积极纳谏等内容。据此可知，《资治通鉴》的历史智慧包括

A. 统治者应当虚心纳谏　　B. 民心向背影响统治稳定
C. 政策制定需因地制宜　　D. 经济发展决定王朝走向

7. 元朝为了将南方的粮食顺利北运，开辟了规模空前的海运航线，航线的开辟使“民无挽输之劳（无需费力的劳动），国有储蓄之富”。由此可知，海运

A. 提高了南方粮食产量　　B. 促进了对外贸易繁荣
C. 推动了国家经济发展　　D. 加重了农民徭役负担

8. 黄道婆自海南崖州归来后，将积累的纺织经验毫无保留地教给了松江乡民，并创造出一整套成熟的棉纺织工艺。由此可知，黄道婆对棉纺织业发展的主要贡献是

A. 发明了最早的棉纺织工具　　B. 推广了海南的棉纺织技术
C. 推动棉布成为元主要衣料　　D. 建立了松江的棉纺织工坊

9. 下面是记录了明朝重大历史事件的时间轴，其中①代表的历史事件是

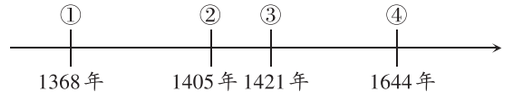

A. 明朝建立　　B. 郑和下西洋
C. 迁都北京　　D. 明朝灭亡

10. 晋华中学七年级（1）班开展“扮演历史角色·体会历史韵味”主题舞台剧表演活动，小李同学扮演的角色使用了如图所示的表演道具，据此判断，该角色主要负责



锦衣卫木印

A. 征集兵员，训练兵种
B. 营造工事
C. 侦察情报，缉捕罪犯
D. 批阅文件

11. 朱元璋建立明朝后积极整顿吏治。《大明律》规定官吏贪腐铜钱80贯以上处死，对贪赃枉法的官吏“永不叙用”；朱元璋也发明了许多残酷的刑法，如族诛、凌迟、戴枷游行等。这体现了朱元璋整顿吏治的特点是

A. 流程精简　　B. 礼法合一　　C. 赏罚分明　　D. 严刑峻法

12. 王绍东在《论长城对中华民族共同体意识的促进与影响》中写道：“明代__▲__后，马市如雨后春笋般蓬勃兴起，一些交通便利的边关也逐渐发展成农耕、游牧民族贸易往来的集散地。”“__▲__”处应当填入的内容是

A. 废除丞相　　B. 设立内阁　　C. 设立奴儿干都司　　D. 隆庆和议

晋华中学七年级(2)班以“明朝的战争”为主题开展项目化学习，以下是同学们为学习成果展示视频而搜集的素材，请据此回答第13、14题。

<table>
<tr><td></td><td></td><td></td></tr>
<tr><td>①鸳鸯阵示意图</td><td>②朝鲜水师模型</td><td>③戚家刀</td></tr>
<tr><td></td><td></td><td></td></tr>
<tr><td>④明朝致丰臣秀吉诏书(部分)</td><td>⑤朝鲜水军将领李舜臣</td><td>⑥戚继光</td></tr>
</table>

13. 同学们在对素材进行分类时不小心将其打乱，现在确定它们与两场战争相关，请帮助同学们将素材进行分组

A. ①②③和④⑤⑥　　B. ①④⑥和②③⑤

C. ①③⑥和②④⑤　　D. ①②⑤和③④⑥

14. 请结合以上素材，为同学们选取一个合适的视频标题

A. 和平交往，开放交流　　B. 军事行动，捍土卫疆

C. 科技进步，社会发展　　D. 商业兴旺，通达四海

15. 下图为澳门的大三巴牌坊，其原名为圣保禄教堂，于1635年由殖民者建成。该殖民者是



A. 西班牙

B. 葡萄牙

C. 英国

D. 荷兰

第II卷　非选择题(共45分)

本部分共4道大题，其中16题8分，17题10分，18题12分，19题15分，共45分。

16. **文脉传承·智启未来。**七年级(3)班同学开展项目化学习，请你参与完成。

【项目名称】汲取智慧·传承文化

【项目目标】走近历史人物与优秀作品，感受中华民族不断探索的勇气和薪火相传的优秀文化。

【项目任务】

任务一　第一组同学以“科技之路”为主题，搜集了历史上在科技领域有杰出成就的部分历史人物。


①僧一行


②沈括


③毕昇


④郭守敬


⑤苏颂


⑥孙思邈

问题1：请按时间顺序在空格处填写正确的序号，并选取其中一位人物，仿照示例对其在科技领域的成就进行简单介绍。(5分)

排序：□→①→③→⑤→□→□

示例　①僧一行通过天文观测制定了《大衍历》，还组织实测地球子午线长度；僧一行的成就既对天文学发展有重要意义，也对世界数学的发展具有价值。

任务二　第二组同学以“文学之光”为主题，制作了介绍古代文学发展的展板。

体裁	唐诗	宋词	元曲
特点	▲	句子有长有短，风格多样，便于歌唱	融合歌唱、表演，舞蹈，语言通俗，深刻体现社会现实
代表作	《将进酒》	《念奴娇·赤壁怀古》	▲
结语	▲		

问题2：请补全展板中▲处的空缺。(3分)

17. **经济繁荣·百业兴旺**。阅读下列材料，结合所学知识回答问题。

材料一

自宋以来，江南稻麦复种遍行，苏湖熟则天下足。又有占城稻耐旱早熟，民争引种，亩产倍于往昔。 ——《宋史·食货志》	予昔游武昌，见农夫皆骑秧马……腹如小舟，昂其首尾，背如覆瓦，以便两髀（股胯部）……日行千畦，较之伛偻（弯腰）而作者，劳佚相绝矣。 ——苏轼《秧马歌》

（1）根据材料一，指出宋代农业发展的表现，并简述秧马的作用。（3分）

材料二　　**宋朝五大名窑作品风格及代表作品**

名窑	河北曲阳定窑	河南宝丰汝窑	浙江哥窑	河南开封/浙江杭州官窑	河南禹州钧窑
作品风格	以烧制白瓷为主，产品装饰有印花、刻花等	瓷胎薄而坚细，釉多呈天青色，青中带蓝	主要烧制青瓷，釉面上分布着大小纹片	釉色以粉青为上，淡白次之	釉色青中带红称“钧红”，有的釉色呈紫色称“钧紫”
代表作品	 定窑孩儿枕	 汝窑三足樽承盘	 哥窑葵瓣口洗	 官窑贯耳瓶	 钧窑圆花盆

（2）根据材料二，概括宋代瓷器的特点。（3分）

材料三　宋代是继唐代以后又一个社会发展的巅峰，社会的政治、经济发展稳定，文化艺术复兴崛起，蹴鞠依旧是全民性的传统娱乐项目。

——摘编自暨南大学文化遗产创意研究院《中国古代的“足球”文化》

城市的勃兴，商业的繁荣，最终促使一个新的阶级壮大——小市民。《清明上河图》中，我们可以清晰地看到市民清明踢球的情景。

——摘编自魏邦明《〈清明上河图〉和〈东京梦华录〉中的北宋汴京城市体育》

（3）根据材料三，分析宋代蹴鞠运动流行的原因，并再举两例宋代流行的市民娱乐活动。（4分）

18. **朝代更迭·制改令新**。阅读下列材料，结合所学知识回答问题。

材料一

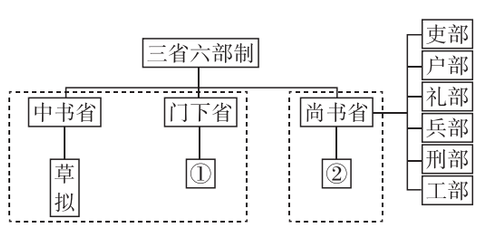

图一

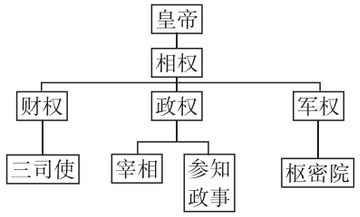

图二

材料二　国家置__▲__以治中央，分行省以治地方，其官名品秩略同，所以达远迩、均劳逸，参错出入，而天下事如指掌矣。

——摘编自虞集《道园学古录》

材料三　明太祖说：“自秦始置丞相，不旋踵（时间短促）而亡。汉、唐、宋因之，虽有贤相，然其间所用者多有小人，专权乱政。我朝罢相，设五府、六部……事皆朝廷总之，所以稳当。”

——摘编自《皇明祖训》

（1）分别写出材料一中①②两处的部门职能，并根据图二总结宋代是如何削弱相权的。（3分）

（2）结合所学知识，填写材料二中“__▲__”处的机构名称，并指出元朝“分行省以治地方”的积极影响。（3分）

（3）根据材料三，简述明太祖加强君主专制的原因与措施。（4分）

（4）综上所述，归纳中国古代政治发展的趋势。（2分）

19. **海纳百川·开放交流**。和平的对外交往是推动不同文明交融互鉴、实现不同地区资源互通与共同繁荣的核心纽带。

【水陆交通·奠交流基础】

(1)根据以下材料,分别简述隋代运河与宋代邮驿的功能,并总结其共同影响。(6分)

开凿运河	邮驿制度
隋炀帝即位后,为巩固国家统一,有效控制江南地区,特别是掌控调配江南富庶物资,他下令开凿大运河。大运河的开通,把沿线重要通都大邑连缀在一起,密切了各地区间的联系,对加强南北的商贸往来、文化交流,维护全国统一和中央集权起了重要作用。 ——摘编自詹子庆《中国古代史(下)》	有宋一代,实行邮、驿分立,"馆驿"负责来往人员接待,"递铺"司职公文传递。作为递铺之一种,"急脚递"日行四百里,昼夜五百里,专司通信,另设有金字牌急脚递,用以传送赦书及军机要务等文件。 ——摘编自张可辉、叶美兰《宋代急脚递之创设及其管理、驿令考述》

【对外贸易·开交流新途】

(2)根据以下材料并结合所学知识,简述元朝中外交通的发展,并指出宋元时期海外贸易发达的表现。(4分)

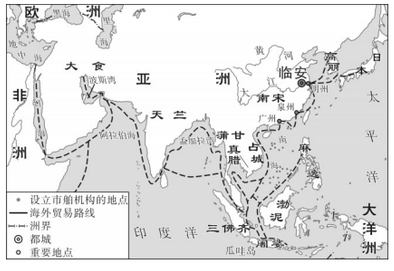

宋代海路交通路线图

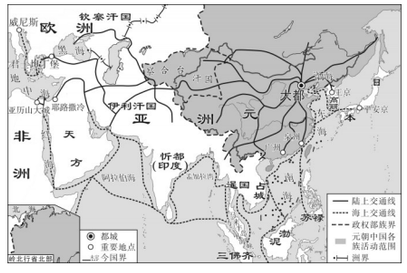

元朝交通路线图

【和平交往·促交流新风】

(3)根据以下材料并结合所学知识,写出①处的四大发明名称,简述②处书籍的历史价值,并指出③处所反映史事的积极意义。(3分)

		
14世纪《世界珍异记》插图	②《回回药方》书影	③印度尼西亚爪哇岛三宝庙
印度洋中的船舶与使用__①__的印度水手	回回药物与传统中药并用,其疾病认识理论既保存有伊斯兰医学的特征,也有中国传统医学的成分	位于印度尼西亚的爪哇岛北岸,是广大华侨以及当地人民为了纪念郑和而建造的中国式庙宇

【交往之史·得交流经验】

(4)综上所述,总结中国古代交流交往的特点。(2分)